Date : .....

Horaires et durées

❶ Complète.

❷ Observe les trois premiers horaires puis complète.

a.



Il est ____

b.



Il est ____

c.



Il est ____

d.



Il est .....

e.



Il est .....

f.



Il est .....

g.



Il est .....

h.



Il est .....

i.



Il est .....

j.



Il est .....

k.



Il est .....

l.



Il est .....

❸ Il est ____ h ____, dans combien de temps sera-t-il ____ h ? .....

Il est ____ h ____, dans combien de temps sera-t-il ____ h ? .....

Il est ____ h ____, dans combien de temps sera-t-il ____ h ? .....

❹ Le cours de dessin de Maïa commence à ____ h ____ et se termine à ____ h ____.
Combien de temps dure-t-il ?

.....

❺ L'entraînement de ping-pong de Tim commence le samedi à ____ h ____ et dure ____ minutes.
À quelle heure se termine-t-il ?

.....

Date : .....

Longueurs en m, cm et mm

❷ Maïa met bout à bout deux segments. Trouve la longueur de la ligne obtenue.

a. Le premier segment mesure ___ cm, le deuxième mesure ___ cm.

La ligne mesure .....

b. Le premier segment mesure ___ m ___ cm, le deuxième mesure ___ cm.

La ligne mesure .....

c. Le premier segment mesure ___ cm ___ mm, le deuxième mesure ___ cm ___ mm.

La ligne mesure .....

❸ Écris les longueurs en utilisant une autre unité :

a. ___ cm = ...

b. ___ cm = ...

c. ___ mm = ...

d. ___ mm = ...

Longueurs en m, cm et mm

❷ Maïa met bout à bout deux segments. Trouve la longueur de la ligne obtenue.

a. Le premier segment mesure ___ cm, le deuxième mesure ___ cm.

La ligne mesure .....

b. Le premier segment mesure ___ m ___ cm, le deuxième mesure ___ cm.

La ligne mesure .....

c. Le premier segment mesure ___ cm ___ mm, le deuxième mesure ___ cm ___ mm.

La ligne mesure .....

❸ Écris les longueurs en utilisant une autre unité :

a. ___ cm = ...

b. ___ cm = ...

c. ___ mm = ...

d. ___ mm = ...

SÉANCE 5 Guide p. 241		Fichier d'entraînement p. 107
	ACTIVITÉS	INDIVIDUEL
Différenciation	Problèmes écrits	Exercices 2 à 4
Différenciation	Contenances (l, cl, ml)	Exercices 5 à 7

Date : .....

Problèmes écrits

2 Tim a ___ billes.
Combien peut-il faire de paquets de 4 billes ?

.....

.....

3 Maïa a ___ perles.
Combien peut-elle faire de colliers de 6 perles ?

.....

.....

.....

4 Plume a entre ___ et ___ noisettes.
Quand il range ses noisettes
par paquets de ___, il lui en reste ___.
Combien Plume a-t-il de noisettes ?

.....

.....

.....

.....

DICO p.30

Unités de contenances

5 Relie les étiquettes qui correspondent aux mêmes contenances.

___ ml ___ ml ___ cl ___ ml ___ cl ___ l ___ cl ___ cl

6 **a.** Entoure les contenances plus grandes que 1 litre.

___ cl ___ cl ___ ml ___ l ___ cl ___ cl

b. Range ces contenances de la plus grande à la plus petite.

[ ] [ ] [ ] [ ] [ ] [ ]

7 Parmi les contenances suivantes :

___ cl ___ cl ___ ml ___ ml ___ l ___ cl

a. Quelle est la plus grande ? .....

b. Quelle est la plus petite ? .....

c. Range ces contenances de la plus petite à la plus grande.

[ ] [ ] [ ] [ ] [ ] [ ]